2022 年 8 月 5 日
みくに出版

『2021 年度受検用公立中高一貫校適性検査問題集』訂正

ISBN:978-4-8403-0767-3

●問題 546 ページ「静岡県立清水南高等学校中等部・静岡県立浜松西高等学校中等部・沼津市立沼津高等学校中等部」

〈総合適性検査問題Ⅱ〉

Ⅳ　問題の一部（問７）欠落

→欠落部分はみくに出版 Webshop に掲載いたします

●問題 553 ページ「滋賀県立河瀬中学校・滋賀県立水口東中学校・滋賀県立守山中学校」

〈適性検査〉

1

（誤）

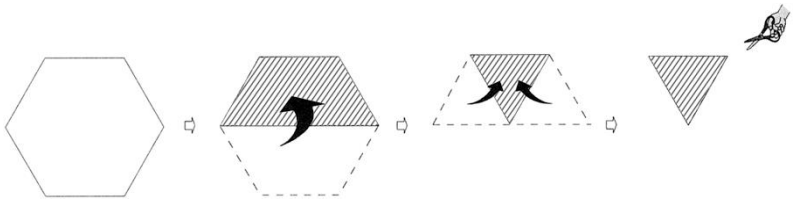

（正）

図４



図５

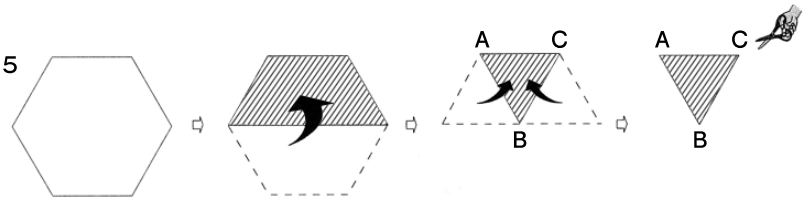

●解答 4 ページ「かえつ有明中学校」

〈思考力Ⅰ〉【3】（問 1）

（誤）

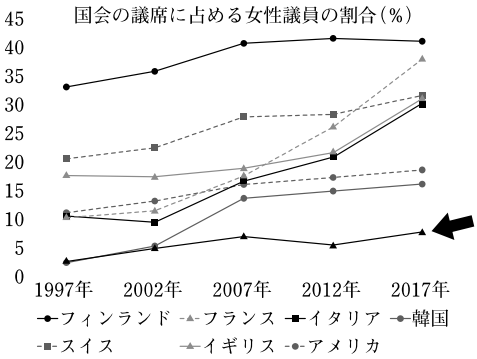

（正）

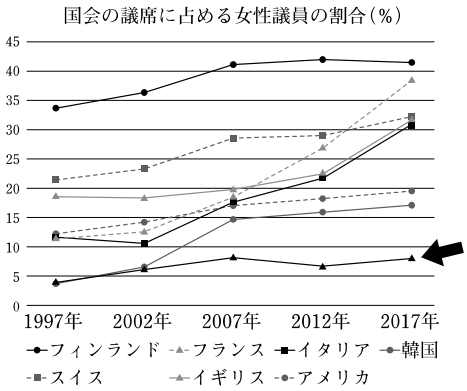

2022 年 8 月 5 日
みくに出版

●解答 5 ページ「女子聖学院中学校」

〈算数問題〉

〔問題 4〕

（誤）生徒の往復運賃は，1 人 275×2＝550 円より　234 名分で 550×234＝12870 円　先生分は 2310 円だから　全員分で　12870＋2310＝15180 円　（答え）15180 円

（正）生徒の往復運賃は，1 人 275×2＝550 円より 234 名分で 550×234＝128700 円　先生分は 2310 円だから　全員分で　128700＋2310＝131010 円　（答え）131010 円

●解答 27 ページ「千代田区立九段中等教育学校」

〈適性検査３〉

1 問 3

（誤）

旅行日（ 4 月 3 日）	行程表
時刻（所要時間）	行　動　計　画
7：15	家を出発　一般の道路を使って，いずみＩＣに向かう
↓（　0 時間　30 分）	
7：45	いずみＩＣに到着　高速道路に入る
↓（0 時間 30 分）	
8：15	たかいＳＡに到着
↓（0 時間 45 分）	たかいＳＡで休けい
9：00	たかいＳＡを出発
↓（1 時間 00 分）	
10：00	あかしろＩＣに到着　一般の道路に入る
↓（　0 時間　40 分）	
10：40	お花見会場に到着
↓（　4 時間　00 分）	お花見
14：40	お花見会場を出発

（正）

旅行日（ 4 月 3 日）	行程表
時刻（所要時間）	行　動　計　画
7：15	家を出発　一般の道路を使って，いずみＩＣに向かう
↓（　0 時間　30 分）	
7：45	いずみＩＣに到着　高速道路に入る
↓（0 時間 30 分）	
8：15	たかいＳＡに到着
↓（0 時間 30 分）	たかいＳＡで休けい
8：45	たかいＳＡを出発
↓（1 時間 15 分）	
10：00	あかしろＩＣに到着　一般の道路に入る
↓（　0 時間　40 分）	
10：40	お花見会場に到着
↓（　4 時間　00 分）	お花見
14：40	お花見会場を出発

●解答 12 ページ「山形県立東桜学館中学校」

〈適性検査〉

1 １（３）

（誤）「部首さくいん」を使って，「和」の部首である「のぎへん」で調べる。

（正）「部首さくいん」を使って，「和」の部首である「くち」で調べる。

●解答 24 ページ「東京都立三鷹中等教育学校」

〈適性検査Ｉ〉

1 〔問題３〕）

（誤）感情のつながりが人生を一つのまとまったものにしている、というのがあたりまえの考えであること。

（正）感情のつながりが人生を一つのまとまったものにしている、というのがあたりまえの考えではないこと。

2022年8月5日
みくに出版

●解答34ページ「滋賀県立河瀬中学校・滋賀県立水口東中学校・滋賀県立守中学校」
〈適性検査〉1 1
（誤）…よって，はるきさんが家を出発してから公民館に到着する時刻は，午前7時30分＋27分56秒＝午前7時57分36秒。
（正）…よって，はるきさんが家を出発してから公民館に到着する時刻は，午前7時30分＋27分56秒＝午前7時57分56秒。

●解答43ページ「広島県立広島叡智学園中学校」
〈適性検査A〉2
［例1］（6）
（誤）あのコマが回った時間の平均は，うやけのコマが回った時間の平均よりも長くなる
（正）あのコマが回った時間の平均は，うやけのコマが回った時間の平均よりも短くなる

［例2］（6）
（誤）いのコマが回った時間の平均は，えやこのコマが回った時間の平均よりも長くなる
（正）いのコマが回った時間の平均は，えやこのコマが回った時間の平均よりも短くなる

［例7］（5）
（誤）…きとこを比べると，「円盤の位置」以外の条件がすべて同じ
（正）…きとくを比べると，「円盤の位置」以外の条件がすべて同じ

［例10］（5）
（誤）…けとこを比べると，「円盤の位置」以外の条件がすべて同じ
（正）…きとくを比べると，「円盤の位置」以外の条件がすべて同じ

●解答51ページ「佐賀県立唐津東中学校・佐賀県立香楠中学校・佐賀県立武雄青陵中学校・佐賀県立致遠館中学校」
〈適性検査Ⅱ〉
2 (1)（誤）２人の１試合の得点の割合を比べると，ひなたさん…20÷６＝３$\frac{1}{3}$（点）
たろうくん…25÷８＝３$\frac{1}{8}$（点）となり，ひなたさんの方が得点が多いと考えることができるから。
（正）２人の１試合の得点の割合を比べると，ひなたさん…９÷６＝1.5（点）
たろうくん…10÷８＝1.25（点）となり，ひなたさんの方が得点が多いと考えることができるから。

以上